Второй этап Республиканской олимпиады по учебному предмету «География» 2018/2019 учебный год.

МУЛЬТИМЕДИЙНЫЙ ТЕСТ

10 КЛАСС

Уважаемый участник олимпиады!

На выполнение заданий мультимедийного тура олимпиадной работы отводится 75 минут.

Ответы на задания мультимедийного теста необходимо вписать в предлагаемый бланк ответов.

По результатам мультимедийного тестирования Вы можете получить максимум 75 баллов.

ЖЕЛАЕМ ТЕБЕ УДАЧИ!

Тестовые вопросы с 1 по 15 имеют альтернативный выбор ответа (из предложенных вариантов ответов лишь один является верным)

Вопрос 1. **Кто из путешественников не совершал кругосветное путешествие**



А. Дрейк **Б. Кук** **В. Крузенштерн** **Г. Поло**

Вопрос 2. **Кто из путешественников первым достиг южного полюса Земли.**



А. Шмидт

Б. Амундсен

В. Скотт

Г. Пири

Вопрос 3. **Угломерный прибор, которым пользовались с древних времен и по 18 век. Его придумал астроном Гиппарх для измерения широты и долготы**

А. НИВЕЛИР

Б. БУССОЛЬ

В. АСТРОЛЯБИЯ

Г. СЕКСТАНТ

Вопрос 4. **С помощью какого из приборов можно измерять расстояния на местности**

А. Компас **Б. Рулетка** **В. Анемометр** **Г. Курвиметр**

Вопрос 5. Какое природное явление показано на фото

А. ПРИЛИВЫ И ОТЛИВЫ

Б. НАВОДНЕНИЕ

В. ЦУНАМИ

Г. ПОЛОВОДЬЕ И МЕЖЕНЬ

Вопрос 6. На рисунке представлена геоцентрическая система мира. Кто ее автор

А. ПТОЛЕМЕЙ

Б. АРИСТОТЕЛЬ

В. КОПЕРНИК

Г. ГАЛЛИЛЕЙ

Вопрос 7. **Какой тип извержения вулкана представлен на рисунке**

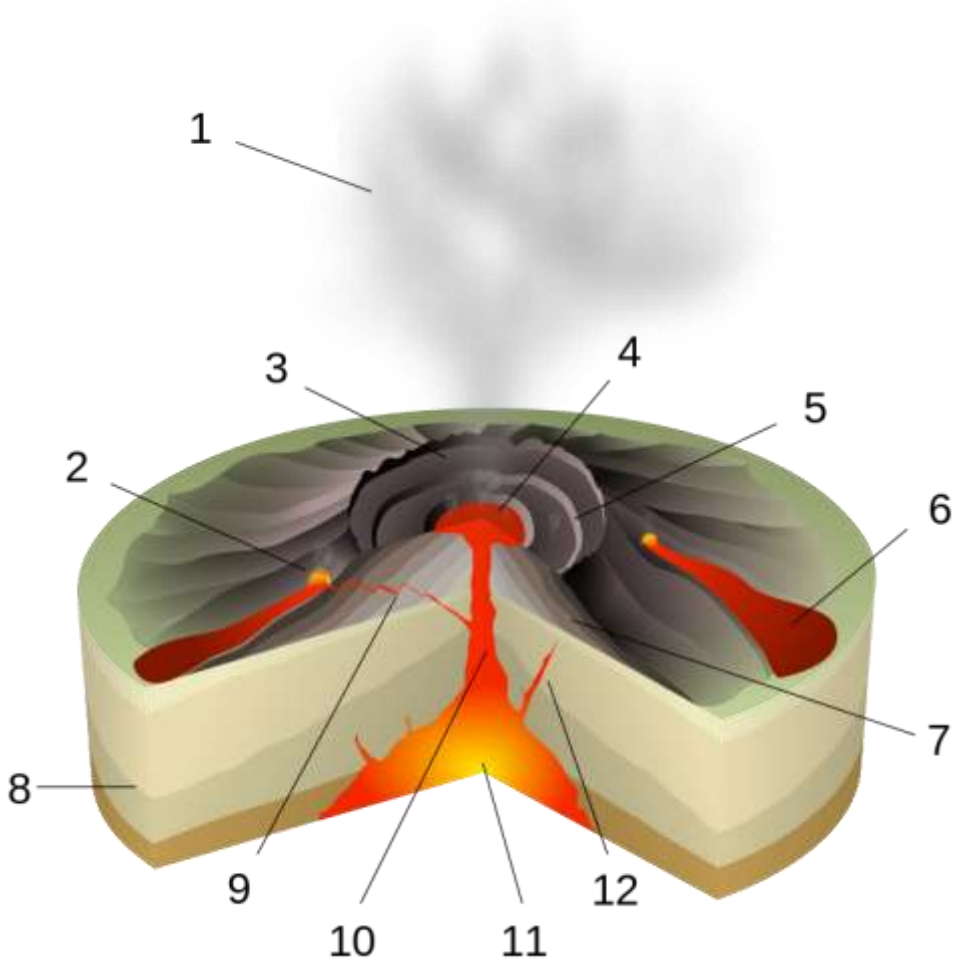

А. ПЛИНИАНСКИЙ

Б. СТРОМБОЛИАНСКИЙ

В. ГАВАЙСКИЙ

Г. ПЕЛЕЙСКИЙ

Вопрос 8. **Какой драгоценный камень не является разновидностью кварца**

А. АМЕТИСТ

Б. ОПАЛ

В. ЦИТРИН

Г. МОРИОН

Вопрос 9. **Какая горная порода в результате метаморфизации может превратится в мрамор?**

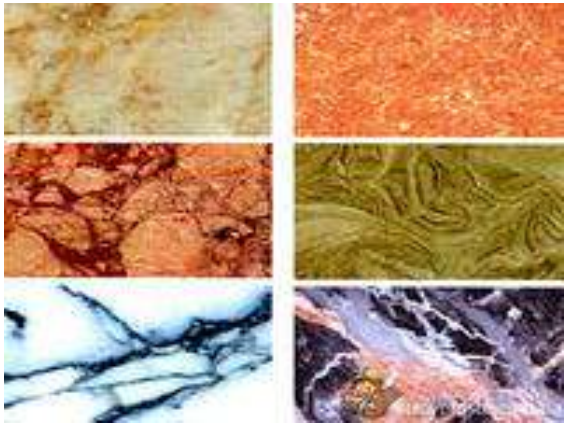

А. ГЛИНА

Б. ГРАНИТ

В. ГИПС

Г. ИЗВЕСТНЯК

Вопрос 10. **Как называются глинистые пустыни?**

А. ТАКЫРЫ

Б. БАРХАНЫ

В. КЕВИРЫ

Г. ЭРГИ

Вопрос 11. **Результат действия какого стихийного бедствия показан на фото**

А. НАВОДНЕНИЯ

Б. ОПОЛЗНЯ

В. ЗЕМЛЕТРЯСЕНИЯ

Г. УРАГАНА

Вопрос 12. **На каком из представленных фото изображен залив Карпентария**

А.

Б.

В.

Г.

Вопрос 13. **Какой буквой на снимке обозначено озеро Гурон**

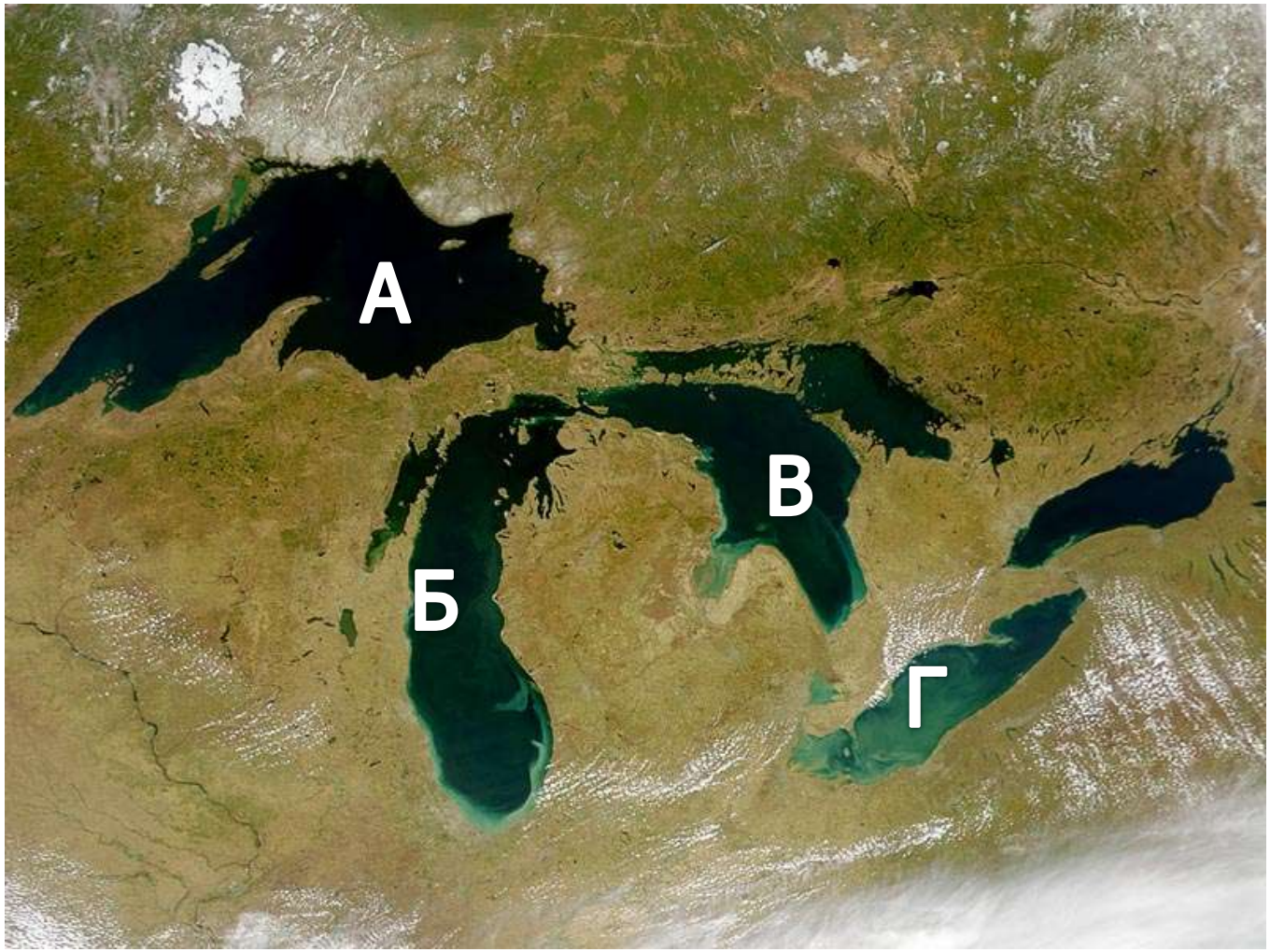

Вопрос 14. **Какой тип электростанций представлен на фото:**

А. ТЕПЛОВЫЕ

Б. АТОМНЫЕ

В. ГЕОТЕРМАЛЬНЫЕ

Г. ГИДРАВЛИЧЕСКИЕ

Вопрос 15. **Центр какой мировой религии представлен на фото?**

А. ХРИСТИАНСТВО

Б. БУДДИЗМ

В. ИСЛАМ

Г. ДАОСИЗМ

На вопросы с 16 по 25 необходимо дать короткий ответ