Вопрос 16. **Как называется процесс, приводящий к образованию данных форм рельефа**

Вопрос 17. **В состав какого крупного архипелага входят данные острова**

Вопрос 18. **В пределах акватории какого моря располагаются представленные на фото острова**

Вопрос 19. **К какому типу по форме правления и политико-территориальному устройству относятся государства, чьи флаги представлены ниже**

Вопрос 20. **Определите страну**

Вопрос 21. **Флаг какого из государств Северной Европы лишний, исходя из их географического положения**





Вопрос 22. **Какое государство Африки отмечено знаком.**

Вопрос 23. **Какой тип берега представлен на рисунках?**

Вопрос 24. **Какая литосферная плита обозначена знаком ★**

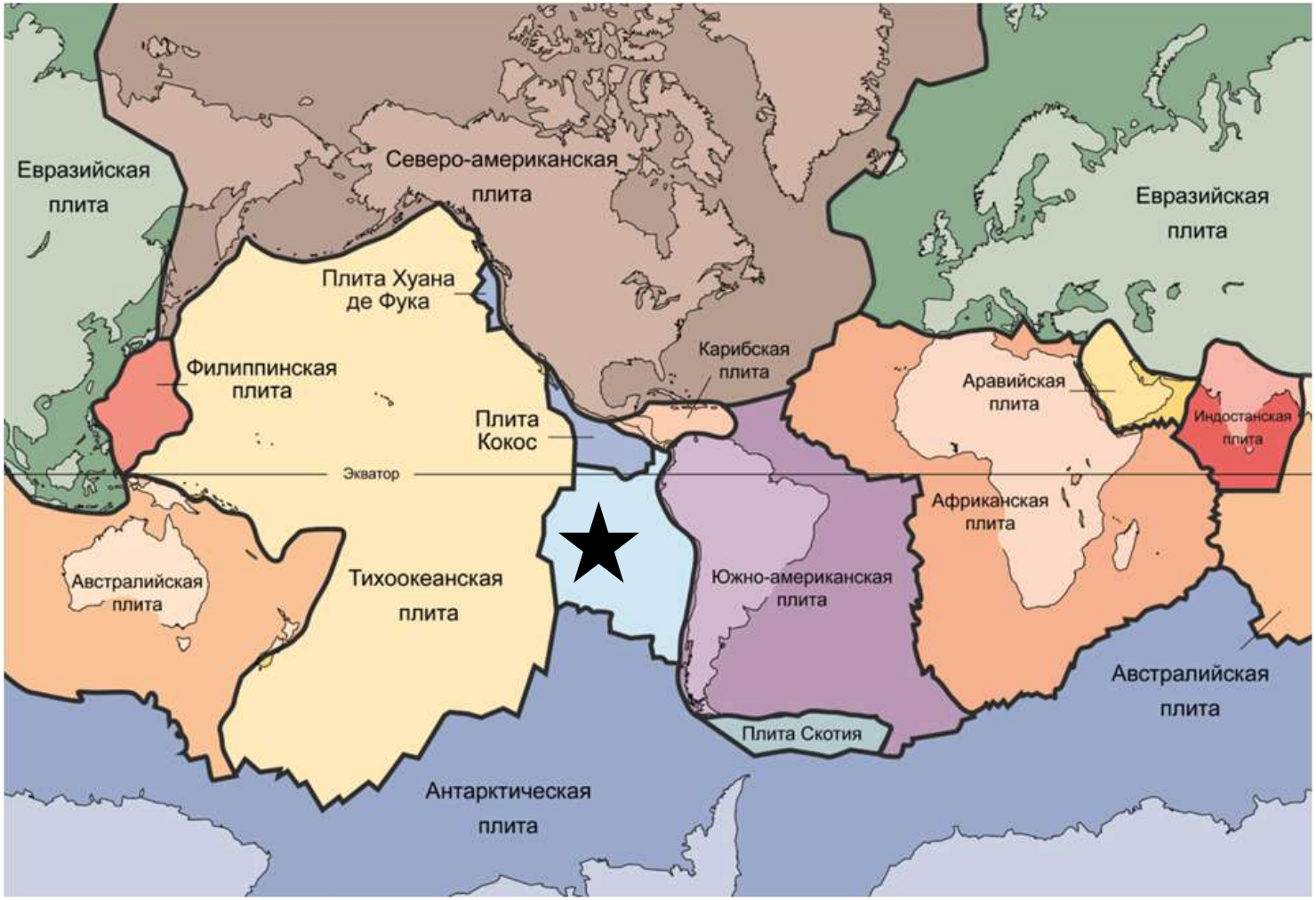

Вопрос 25. **В каком городе расположено данное производство?**

На вопросы с 26 по 30 необходимо вставить пропущенные элементы

Вопрос 26. **Дополните таблицу**

СТРАНА	ОСТРОВ	ПРОИСХОЖДЕНИЕ ОСТРОВА (-ОВ)
	НЬЮФАУНДЛЕНД	МАТЕРИКОВЫЙ
АВСТАЛИЙСКИЙ СОЮЗ	БОЛЬШОЙ БАРЬЕРНЫЙ РИФ	
США		ВУЛКАНИЧЕСКИЙ

Вопрос 27. **Дополните список официальных языков ООН…**

1. Английский
2. Французский
3. Испанский
4. Арабский
5. …
6. …

Вопрос 28. **Назовите основные тонизирующие культуры и лидеров по их производству**

Вопрос 29. **Назовите крупнейшие острова, принадлежащие материковым государствам**



Вопрос 30. **На фото представлены объекты всемирного наследия ЮНЕСКО одной из стран мира. Назовите эту страну и показанные объекты.**

На вопрос 31 необходимо определить страну и дать ответы на дополнительные вопросы

Вопрос 31. **Определите страну по фото и заполните ее анкету**

Спасибо за участие